الصف: خامس ابتدائي

٢٠

اختبار الفترة الثانية لمادة المهارات الرقمية للصف الخامس ابتدائي الفصل الدراسي الأول١٤٤٧ هـ

اسم الطالبة: ..... الصف: .....

١١

اختاري الإجابة الصحيحة:

١-نستطيع في برنامج الوورد ادراج:					
أ	الصور	ب	الأشكال	ج	جميع ما سبق
٢- من أجهزة الالتقاط التي تستخدم للصوت					
أ	الكاميرا الرقمية	ب	المايكرفون	ج	الماسح الضوئي
٣- يمكن إضافة كائن في سكر اتش من خلال					
أ	جهاز الحاسب	ب	مكتبة سكر اتش	ج	جميع ما سبق
٤- هو مجموعة من التعليمات المكتوبة بإحدى لغات البرمجة ينفذها الحاسب					
أ	برنامج الحاسب	ب	الطابعة	ج	الشاشة
٥- لحذف الكلمات والجمل في الوورد نستخدم زر					
أ	Enter	ب	Tab	ج	Delete -BackSpace

ضعي علامة ✔ أو ✖ أمام العبارات التالية:

١- يفيد ادراج الصور والاشكال في جعل المستند اكثر جاذبية	
٢-لانستطيع الكتابة داخل مجموعة الاشكال وتنسيقها	
٣-يزداد وضوح الصورة كلما كان حجمها اكبر	
٤-المسافة البادئة تعني المسافة بين الاسطر والكلمات	
٥-الرسومات التوضيحية تجعل المستند اكثر تعقيدا ويصعب فهمه	
٦-أجهزة الالتقاط مخصصة لاالتقاط الصوت فقط	

٩

رتبي وحدات القياس التالية من الأصغر إلى الأكبر:

تيرا بايت | جيجا بايت | ميجا بايت | كيلو بايت | بايت

وصلي بالأرقام ما يناسب:

١- يعرض خطوات غير متسلسلة.	هيكلي
٢- يستعمل لإنشاء مخطط منظم /هيكل تنظيمي.	قائمة
٣- يعرض علاقة متناسقة مع الترتيب من الأعلى أو الأسفل.	علاقة
٤-للمقارنة أو لعرض العلاقة بين فكرتين.	هرمي

انتهت الاسئلة

أرجو لكن التوفيق

معلمة المادة/ أمل الحميدي

اختبار الفترة الثانية الصف الخامس

المادة: مهارات رقمية

مدرسة :.....

الاختبار يشمل الوحدة الثالثة كاملة والوحدة الرابعة إلى درس الحركة في سكراتش

اسم الطالب:..... الصف: .....

20

السؤال الأول: ضع علامة صح أمام العبارة الصحيحة:

10

1- أجهزة الالتقاط مخصصة لالتقاط الصوت فقط. ( )

2- ملفات النصوص أكبر حجما من ملفات الفيديو. ( )

3- كل ما يعرض في الإنترنت من صور وفيديو يعتبر مجاني بلا حقوق ملكية. ( )

4- عند البحث عن الصور لا أستطيع تحديد الحجم أو اللون أو النوع من أدوات البحث. ( )

5- الخوارزمية هي مجموعة من التعليمات المتسلسلة والخاصة بحل مشكلة أو إكمال مهمة معينة. ( )

6- يسمى منشئ البرنامج: مبرمجا ومهندس برمجيات ومطور برمجيات. ( )

7- الكائن في سكراتش يمكن أن يكون نصا أو صورة أو رسمة. ( )

8- معظم الكائنات لها مظاهر تجعلها تبدو وكأنها تقوم بحركات مختلفة ( )

9- توجد لبنة (إذا () ثم (if () then) ضمن فئة لبنات (الأحداث) صفراء اللون. ( )

10- تنتمي لبنة (ارتد إذا كنت عند الحافة) للبنات الحركة زرقاء اللون. ( )

10

السؤال الثاني: اختر الإجابة الصحيحة:

1- لحفظ الصور أضغط عليها بزر الفأرة الأيمن وأختار :		
أ- فتح.	ب- حذف.	ج- حفظ الصورة.
2- يستخدم برنامج صور مايكروسوفت لإنشاء وتحرير.....		
أ- جداول الإكسل.	ب- مقاطع الفيديو.	ج- عروض البوربوينت.
3- أكبر وحدات الحجم هي:		
أ- جيجا بايت.	ب- كيلو بايت.	ج- ميقا بايت.
4- عند البحث عن الصور أستطيع تحديد:		
أ- الحجم واللون.	ب- النوع.	ج- جميع ما سبق.
5- لتكرار الكائن في سكراتش نضغط عليه باليمين ونختار:		
أ- تصدير.	ب- مضاعفة.	ج- حذف.
6- نستخدم دائما مع لبنة (اسأل () وانتظر) لبنة:		
أ- (الإجابة answer)	ب- اتجه نحو الاتجاه.	ج- تحرك ( ) خطوة.
7- لجعل الكائن يرتد عند لمس الحافة نستعمل لبنة:		
أ- كرر باستمرار.	ب- تحرك ( ) خطوة.	ج- ارتد إذا كنت عند الحافة.
8- لبنات التكرار توجد ضمن فئة:		
أ- الصوت.	ب- التحكم.	ج- الصوت.
9- أكثر اللبنات استخدام في سكراتش هي لبنة:		
أ- لبنة كرر باستمرار.	ب- لبنة المظهر التالي.	ج- انتظر () ثانية.
10- الزر الافتراضي للبنة مفتاح () مضغوط هو زر:		
أ- مفتاح الإدخال Enter.	ب- مفتاح شفت Shift.	ج- مفتاح المسافة.

معلم / ة المادة / .....

نموذج الإجابة

نموذج إجابة
الاختبار يشمل الوحدة الثالثة كاملة والوحدة الرابعة إلى درس الحركة في سكراتش

اسم الطالب:..... الصف: .....

20

السؤال الأول: ضع علامة صح أمام العبارة الخاطئة:

10

1- أجهزة الالتقاط مخصصة لالتقاط الصوت فقط. (**خطأ**)
2- ملفات النصوص أكبر حجما من ملفات الفيديو. (**خطأ**)
3- كل ما يعرض في الإنترنت من صور وفيديو يعتبر مجاني بلا حقوق ملكية. (**خطأ**)
4- عند البحث عن الصور لا أستطيع تحديد الحجم أو اللون أو النوع من أدوات البحث. (**خطأ**)
5- الخوارزمية هي مجموعة من التعليمات المتسلسلة والخاصة بحل مشكلة أو إكمال مهمة معينة. (**صح**)
6- يسمى منشئ البرنامج: مبرمجا ومهندس برمجيات ومطور برمجيات. (**صح**)
7- الكائن في سكراتش يمكن أن يكون نصا أو صورة أو رسمة. (**صح**)
8- معظم الكائنات لها مظاهر تجعلها تبدو وكأنها تقوم بحركات مختلفة. (**صح**)
9- توجد لبنة (إذا () ثم (if () then) ضمن فئة لبنات (الأحداث) صفراء اللون. (**خطأ**)
10- تنتمي لبنة (ارتد إذا كنت عند الحافة) للبنات الحركة زرقاء اللون. (**صح**)

10

السؤال الثاني: اختر الإجابة الصحيحة:

1- لحفظ الصور أضغط عليها بزر الفأرة الأيمن وأختار :		
أ- فتح.	ب- حذف.	ج- حفظ الصورة.
2- يستخدم برنامج صور مايكروسوفت لإنشاء وتحرير.....		
أ- جداول الإكسل.	ب- مقاطع الفيديو.	ج- عروض البوربوينت.
3- أكبر وحدات الحجم هي:		
أ- جيجا بايت.	ب- كيلو بايت.	ج- ميقا بايت.
4- عند البحث عن الصور أستطيع تحديد:		
أ- الحجم واللون.	ب- النوع.	ج- جميع ما سبق.
5- لتكرار الكائن في سكراتش نضغط عليه باليمين ونختار:		
أ- تصدير.	ب- مضاعفة.	ج- حذف.
6- نستخدم دائما مع لبنة (اسأل () وانتظر) لبنة:		
أ- (الإجابة answer)	ب- اتجه نحو الاتجاه.	ج- تحرك ( ) خطوة.
7- لجعل الكائن يرتد عند لمس الحافة نستعمل لبنة:		
أ- كرر باستمرار.	ب- تحرك ( ) خطوة.	ج- ارتد إذا كنت عند الحافة.
8- لبنات التكرار توجد ضمن فئة:		
أ- الصوت.	ب- التحكم.	ج- الصوت.
9- أكثر اللبنات استخدام في سكراتش هي لبنة:		
أ- لبنة كرر باستمرار.	ب- لبنة المظهر التالي.	ج- انتظر () ثانية.
10- الزر الافتراضي للبنة مفتاح () مضغوط هو زر:		
أ- مفتاح الإدخال Enter.	ب- مفتاح شفت Shift.	ج- مفتاح المسافة.

معلم / ة المادة / .....

الاسم : _____ الصف : _____

اختبار الفترة الثانية الفصل الدراسي الأول - مادة المهارات الرقمية - الصف الخامس الابتدائي

٢٠

اختاري الإجابة الصحيحة :

١	أي من التالي يُعد مثالًا على الوسائط المتعددة ؟		
أ-	نص فقط	ب- صوت وصورة وفيديو	ج- رقم هاتف
٢	ما البرنامج الذي يستخدم لإنشاء القصص المصورة والعروض التفاعلية ؟		
أ-	وورد	ب- سكراتش	ج- الآلة الحاسبة
٣	الصوت يُعتبر من أنواع:		
أ-	الوسائط المتعددة	ب- الملفات النصية	ج- البرامج التعليمية
٤	الصيغة المستخدمة غالبًا لحفظ الصور هي:		
أ-	MP3	ب- JPG	DOCX
٥	تستخدم خاصية السحب والإفلات في سكراتش لـ:		
أ-	كتابة رسالة	ب- تحريك المقاطع البرمجية	ج- تغيير اللغة
٦	أيقونة العلم الأخضر في سكراتش تُستخدم لـ:		
أ-	بدء تشغيل المشروع	ب- حذف الكائن	ج- تغيير الخلفية
٧	من أمثلة ملفات الفيديو:		
أ-	PNG	ب _ MP4	ج- PDF
٨	الكائن في سكراتش هو:		
أ_	الخلفية فقط	ب_ العنصرالذي يتحرك ويتفاعل	ج- العنوان الرئيسي
٩	أوامر الحركة في سكراتش تُستخدم لـ:		
أ_	تغيير الصوت	ب_ تغيير الألوان	ج- تحريك الكائن
١٠	الوسائط المتعددة تُستخدم في:		
أ_	الألعاب والعروض التعليمية	ب_ الحسابات الرياضية فقط	ج- كتابة النصوص فقط

ضعي علامة صح أمام العبارة الصحيحة وعبارة خطأ أمام العبارة الخاطئة:

١. تعد الصور جزءًا من الوسائط المتعددة ( )

٢. لا يمكن إضافة صوت إلى العروض التقديمية ( )

٣. في سكراتش يمكن للكائن تنفيذ عدة أوامر برمجية ( )

٤. تعد الفيديوهات من عناصر الوسائط المتعددة ( )

٥. الواجهة في سكراتش تحتوي على المقاطع البرمجية والكائنات والخلفيات ( )

٦. زر العلم الأخضر يستخدم لإيقاف المشروع ( )

٧. يمكن تغيير خلفية المسرح في سكراتش بسهولة ( )

٨. ملف MP3 هو ملف صوت ( )

٩. يمكن للكائن في سكراتش أن يتحدث باستخدام فقاعات الكلام ( )

١٠. لا يمكن استخدام الوسائط المتعددة في التعليم ( )

انتهت الأسئلة

أرجو لكم دوام التوفيق والنجاح

الاسم : _____ الصف : _____

نموذج الإجابة

ية - الصف الخامس الابتدائي

٢٠

اختاري الإجابة الصحيحة :

١	أي من التالي يُعد مثالًا على الوسائط المتعددة ؟		
أ-	نص فقط	ب- صوت وصورة وفيديو	ج- رقم هاتف
٢	ما البرنامج الذي يستخدم لإنشاء القصص المصورة والعروض التفاعلية ؟		
أ-	وورد	ب- سكراتش	ج- الآلة الحاسبة
٣	الصوت يُعتبر من أنواع:		
أ-	الوسائط المتعددة	ب- الملفات النصية	ج- البرامج التعليمية
٤	الصيغة المستخدمة غالبًا لحفظ الصور هي:		
أ-	MP3	ب- JPG	DOCX
٥	تستخدم خاصية السحب والإفلات في سكراتش لـ:		
أ-	كتابة رسالة	ب- تحريك المقاطع البرمجية	ج- تغيير اللغة
٦	أيقونة العلم الأخضر في سكراتش تُستخدم لـ:		
أ-	بدء تشغيل المشروع	ب- حذف الكائن	ج- تغيير الخلفية
٧	من أمثلة ملفات الفيديو:		
أ-	PNG	ب _ MP4	ج- PDF
٨	الكائن في سكراتش هو:		
أ_	الخلفية فقط	ب_ العنصر الذي يتحرك ويتفاعل	ج- العنوان الرئيسي
٩	أوامر الحركة في سكراتش تُستخدم لـ:		
أ_	تغيير الصوت	ب_ تغيير الألوان	ج- تحريك الكائن
١٠	الوسائط المتعددة تُستخدم في:		
أ_	الألعاب والعروض التعليمية	ب_ الحسابات الرياضية فقط	ج- كتابة النصوص فقط

ضعي علامة صح أمام العبارة الصحيحة وعبارة خطأ أمام العبارة الخاطئة:

١. تعد الصور جزءًا من الوسائط المتعددة (✓)

٢. لا يمكن إضافة صوت إلى العروض التقديمية (✗)

٣. في سكراتش يمكن للكائن تنفيذ عدة أوامر برمجية (✓)

٤. تعد الفيديوهات من عناصر الوسائط المتعددة (✓)

٥. الواجهة في سكراتش تحتوي على المقاطع البرمجية والكائنات والخلفيات (✓)

٦. زر العلم الأخضر يستخدم لإيقاف المشروع (✗)

٧. يمكن تغيير خلفية المسرح في سكراتش بسهولة (✓)

٨. ملف MP3 هو ملف صوت (✓)

٩. يمكن للكائن في سكراتش أن يتحدث باستخدام فقاعات الكلام (✓)

١٠. لا يمكن استخدام الوسائط المتعددة في التعليم (✗)

انتهت الأسئلة

أرجو لكم دوام التوفيق والنجاح

مدارس الزيادي النموذجية الأهلية
ALZYADI SCHOOLS
تجيل مبتكر

١٠

الاختبار النصفي للفصل الدراسي الأول لعام ١٤٤٧ هـ للصف
الخامس

اسم الطالبة: ..... الصف: .....

طالبتي مبرمجة المستقبل تذكري ان التفوق في مجال التكنولوجيا يعزز شعور الفخر

٥

السؤال الأول / اختاري الإجابة الصحيحة لكل من العبارات التالية :

١	أي من التالي يُعد مثالًا على الوسائط المتعددة؟		
نص فقط	صوت وصورة وفيديو	ج- رقم هاتف	
٢	ما البرنامج الذي يستخدم لإنشاء القصص المصورة والعروض التفاعلية؟		
وورد	سكراتش	ج- الآلة الحاسبة	
٣	الصوت يُعتبر من أنواع:		
الملفات النصية	الوسائط المتعددة	ج- البرامج التعليمية	
٤	الصيغة المستخدمة غالبًا لحفظ الصور هي:		
MP3	JPG	DOCX	
٥	الوسائط المتعددة تُستخدم في:		
أ_ الألعاب والعروض التعليمية	ب_ الحسابات الرياضية فقط	ج- كتابة النصوص فقط	

٥

السؤال الثاني-أ / ضع علامة (√) أو (X) أمام العبارات التالية:

١	لا يمكن إضافة صوت إلى العروض التقديمية	
٢	تعد الفيديوهات من عناصر الوسائط المتعددة	
٣	ملف MP3 هو ملف صوت	
٤	لا يمكن استخدام الوسائط المتعددة في التعليم	
٥	لا يمكن ادراج صور من الانترنت	

أنتم الأمل بمستقبل أفضل، مُباركة جهودكم، وبالنجاح للجميع.

انتهت الأسئلة

معلمة المادة : أثير التويجري

مدارس الزيادي النموذجية الأهلية
ALZYADI SCHOOLS
لجيل مبتكر

نموذج الإجابة

اختاري الإجابة الصحيحة لكل من العبارات التالية :

١	أي من التالي يُعد مثالًا على الوسائط المتعددة؟		
نص فقط	صوت وصورة وفيديو	ج- رقم هاتف	
٢	ما البرنامج الذي يستخدم لإنشاء القصص المصورة والعروض التفاعلية؟		
وورد	سكراتش	ج- الآلة الحاسبة	
٣	الصوت يُعتبر من أنواع:		
الملفات النصية	الوسائط المتعددة	ج- البرامج التعليمية	
٤	الصيغة المستخدمة غالبًا لحفظ الصور هي:		
MP3	JPG	DOCX	
٥	أيقونة العلم الأخضر في سكراتش تُستخدم لـ:		
بدء تشغيل المشروع	حذف الكائن	ج- تغيير الخلفية	
٦	من أمثلة ملفات الفيديو:		
PNG	ب _ MP4	ج- PDF	
٧	الكائن في سكراتش هو:		
أ_ الخلفية فقط	ب_ العنصر الذي يتحرك	ج- العنوان الرئيسي	
٨	الوسائط المتعددة تُستخدم في:		
أ_ الألعاب والعروض التعليمية	ب_ الحسابات الرياضية فقط	ج- كتابة النصوص فقط	

ضع علامة (√) أو (X) أمام العبارات التالية:

لا يمكن إضافة صوت إلى العروض التقديمية	X
تعد الفيديوهات من عناصر الوسائط المتعددة	√
ملف MP3 هو ملف صوت	√
لا يمكن استخدام الوسائط المتعددة في التعليم	X
لا يمكن ادراج صور من الانترنت	X

أسئلة شاملة لمادة المهارات الرقمية للصف الخامس (الوحدة الأولى - تعلم الأساسيات)

الفصل الدراسي الأول ١٤٤٧هـ

السؤال الأول : اختاري الإجابة الصحيحة مما يلي:

١	من أنواع أجهزة الحاسب			
	(أ) لوحة المفاتيح	(ب) الفأرة	(جـ) مسجل الصوت	(د) الهواتف الذكية
٢	من أدوات الحاسب التفاعلية			
	(أ) الحاسب المحمول	(ب) اللوح الأم	(جـ) شاشة اللمس	(د) قرص الصلب
٣	تُعد وحدة المعالجة المركزية من			
	(أ) مكونات سطح المكتب	(ب) أجزاء الحاسب الرئيسة	(جـ) إعدادات الشاشة	(د)الأجهزة الملحقة للحاسب
٤	يتصل .....بجميع أجزاء الحاسب.			
	(أ) المعالج	(ب) القرص الصلب	(جـ) اللوح الأم	(د) مزود الطاقة
٥	من الأجهزة التي تساعد المستخدم على إدخال البيانات....			
	(أ) وحدة الذاكرة الفلاشية	(ب) لوحة المفاتيح	(ج) بطاقة الذاكرة	(د) مزود الطاقة
٦	من أجهزة التخزين الخارجية			
	(أ) وحدة الذاكرة الفلاشية	(ب) ذاكرة الوصول العشوائي	(جـ)الميكرفون	(د)الهواتف الذكية
٧	لإنشاء اختصار أضغط على الملف بزر الفأرة الأيمن ثم أختار			
	(أ) قص	(ب) إرسال إلى	(جـ) لصق	(د) إنشاء اختصار
٨	بإمكاننا تصغير حجم الملفات والمجلات من خلال عملية تسمى ..... الملفات .			
	(أ) اختصار	(ب) حذف	(ج) ضغط	(د) نسخ
٩	عند حذف مجلد أو ملف عن طريق الخطأ فإنه يتم نقله إلى			
	(أ) التنزيلات	(ب) المستندات	(ج) سلة المحذوفات	(د) البريد
١٠	لنقل مجلد من مكان إلى آخر ننقر على ..... المجلد .			
	(أ) قص	(ب) حذف	(ج) نسخ	(د) لصق
١١	يشير الرمز الموجود في الصورة إلى			
	(أ) مجلد	(ب) ملف مختصر	(ج) ملف مضغوط	(د) فيديو
١٢	يشير الرمز الموجود في الصورة إلى			
	(أ) برنامج	(ب) مجلد	(ج) إدراج صورة	(د) التدقيق الإملائي

السؤال الثاني : ضعي علامة(√) أمام العبارة الصحيحة (x) أمام العبارة الخاطئة:

١-طابعة الليزر أرخص من الطابعات النافثة للحبر. ( )

٢-من أنواع أجهزة الحاسب الحاسوب المحمول . ( )

٣-عند صعوبة العثور على ملف أو برنامج في جهاز الحاسب يمكن إنشاء اختصار له على سطح المكتب. ( )

٤-لا يمكن حذف اختصار ملف بعد إنشائه . ( )

٥-المجلد: هو مساحة تخزينية على القرص الصلب في الحاسب. ( )

٦-يمكننا إضافة البرامج والملفات إلى شريط المهام من خلال سحب وإفلات الأيقونات على شريط المهام. ( )

٧-لا يمكننا حذف الاختصارللملف بعد إنشائه . ( )

٨-تتفاوت درجة ضغط الملفات حسب نوع الملف ومحتواه. ( )

٩-تعتبر الشاشة من المكونات الأساسية لجهاز الحاسب. ( )

١٠-تعتبر الأقراص المضغوطة من أجهزة التخزين الخارجية. ( )

١١-يوجد مزود الطاقة في وحدة النظام. ( )

١٢-عجلة القيادة تُعتبر شكل خاص من لوحة الألعاب. ( )

١٣-لا يمكن العثور على لوحات اللمس في أجهزة الحاسب المحمولة. ( )

١٤-عصا التحكم تُعتبر وحدة شائعة في الألعاب . ( )

١٥-تسمى لوحة الألعاب أيضًا جوي باد . ( )

السؤال الثالث : اكتبي المصطلح المناسب بجانب كل صورة مما يلي :

جهاز إخرج ، جهاز إدخال ، أداة تفاعلية ، جهاز نخزين

----------	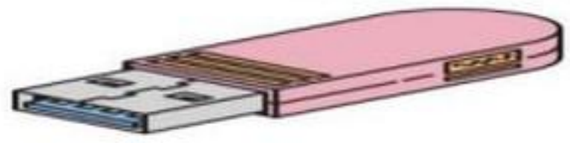

----------	

السؤال الرابع : تتوفر أنواع مختلفة من أجهزة الحاسوب ،اذكري ثلاثة منها :

السؤال الخامس : رتبي خطوات إنشاء اختصار الملف أو البرنامج :

1

ابحث عن الملف أو البرنامج
الذي تريد إنشاء اختصار له

2

اضغط بزر الفأرة الأيمن
و من القائمة إنشاء اختصار

3

يتم إنشاء اختصار في نفس الموقع
،يمكن نقل الموقع باستخدام السحب و
الافلات

دعواتنا لكن بالنجاح والتوفيق

معلمات الماد: حنين المطيري

أسئلة شاملة لمادة المهارات الرقمية (الوحدة الثانية – التعامل مع المستندات) للصف الخامس الابتدائي-

الفصل الدراسي الأول١٤٤٧هـ

السؤال الأول / اختاري الإجابة الصحيحة مما يلي:

١	**يساعدك التفاف النص على ....**			
	(أ) التحكم بكيفية ظهور النص حول الصورة	(ب) تحديد الموضع الصحيح للصورة	(جـ) وضع الصورة خلف النص	(د) إضافة حدود على الصورة
٢	**توجد أداة الصور في ....**			
	(أ) الشريط الرئيسي	(ب) إدراج	(جـ) تنسيق	(د) معاينة
٣	**من مجموعة أنماط الصور نستطيع ....**			
	(أ) إضافة حدود على الصورة	(ب) التحكم بكيفية ظهور النص حول الصورة	(جـ) تحديد الموضع الصحيح للصورة	(د) نضع الصورة أمام النص
٤	**يشير الرمز الموجود في الصورة إلى...**			
	(أ) المحاذة للوسط	(ب) المسافة بين الأسطر	(جـ) المحاذة لليمين	(د) المحاذة لليسار
٥	**إضافة الأشكال والرسوم التوضيحية (Smart Art) داخل المستند تمكننا من....**			
	(أ) عرض المعلومات بشكل أوضح	(ب) إتمام العمليات الحسابية	(جـ) سهولة الوصول للإنترنت	(د) مشاهدة الفيديوهات
٦	**هناك طريقة أكثر سهولة لمراجعة الأخطاء الإملائية في الكتابة من خلال ....**			
	(أ) تجاهل الكلمة	(ب) الضغط بالزر الأيمن على الكلمة الخطأ	(جـ) حذف الكلمة	(د) الضغط بالزر الأيسر على الكلمة الخطأ
٧	**يتم تسطير بعض الكلمات بخط أحمر تحت النص لـ .....**			
	(أ) التدقيق الإملائي	(ب) التدقيق النحوي	(جـ) طباعة ملف	(د) البحث في قاموس المفردات
٨	**السبب في ظهور خط أزرق تحت الكلمات ....**			
	(أ) وجود قاموس المرادفات	(ب) التدقيق الإملائي	(جـ) الرسم التوضيحي	(د)التدقيق النحوي
٩	**نبحث عن مرادفات للكلمة باختيار....**			
	(أ) الطباعة	(ب)التدقيق النحوي	(جـ) قاموس المرادفات	(د) التدقيق الإملائي

السؤال الثاني / ضعي ✓ أو ✗ أمام العبارات التالية:

١- المقال الذي يقتصر على النصوص فقط قد يصيب القارئ بالملل. ( )

٢- الصور عبر الانترنت لا تكون محمية بحقوق الطبع والنشر. ( )

٣- يمكننا التعديل على الصور من تبويب تنسيق الصورة . ( )

٤- تحددالمسافة البادئة مسافة الفقرة من الهامش الأيمن أو الأيسر. ( )

٥- يمكن إنشاء حدود وتظليل من تبويب الفقرة. ( )

٦- توجد جميع أدوات تنسق الخطوط في فقرة ملف. ( )

٧- تباعد الأحرف هو المسافة بين أحرف الكلمة . ( )

٨- يمكننا تنسيق الرسم التوضيحي (Smart Art) بتغيير اللون أو الشكل. ( )

٩- يمكننا إضافة الكلمات التي نثق في صحتها إلى قاموس البرنامج. ( )

١٠- هناك طريقة واحدة للعثور على مرادفات للكلمة . ( )

١١- يتم تشغيل قاموس المرادفات من علامة التبويب الرسوم التوضيحية . ( )

١٢- للتحقق من أخطائك يتم اختيار مراجعة من علامة التبويب . ( )

١٣- لإتمام عملية الطباعة نختار من علامة التبويب ملف ثم جديد . ( )

السؤال الثالث / صلي كل عبارة بالرمز المناسب في الصورة التي أمامك :

السؤال الرابع : صلي كل مصطلح باستخداماته :

1 قائمة (List)

2 معالجة (Process)

3 هرمي (Pyramid)

4 علاقة (Relationship)

يستخدم لعرض العلاقة النسبية أو المتداخلة أو الهرمية .

تستخدم للمقارنة أو لعرض العلاقة بين فكرتين

تُستخدم لإظهار الخطوات أو العناصر المتسلسلة أو غير المتسلسلة.

يستخدم لعرض خطوات عملية أو جدولاً زمنيًا لسير عمل معين.

دعواتنا لكن بالنجاح والتوفيق

معلمات الماد: حنين المطيري

أسئلة شاملة لمادة المهارات الرقمية (الوحدة الثالثة – الوسائط المتعددة) للصف الخامس الابتدائي-

الفصل الدراسي الأول ١٤٤٧هـ

السؤال الأول / في الفقرات من(١) إلى (١٠) ضعي ✓أو ✗ أمام العبارات التالية:

١ - الماسح الضوئي يُستخدم لالتقاط الصور ومقاطع الفيديو مع إمكانية تخزينها بشكل رقمي على جهاز الحاسب. ( )

٢ - لأجهزة الالتقاط منافذ خاصة في جهاز الحاسب تتيح لك نقل البيانات بين أجهزة الإدخال والإخراج، وجهاز الحاسب. ( )

٣- يكفي أن يتصل جهاز الالتقاط بالحاسب لنقل البيانات إليه. ( )

٤- لا يمكنك تحديد الجزء الذي تختارينه من المقطع الصوتي وتشغيله بشكل مستقل عن بقية الأجزاء. ( )

٥- يمكننا دمج أصوات أخرى في نفس الملف الصوتي. ( )

٦- الكيلو بايت أصغر من التيرابايت. ( )

٧- تعد حقوق الطبع والنشر أحد أشكال الحماية.. ( )

٨- توفر شبكة الإنترنت العديد من الصور بأحجام مختلفة، وكلما كانت الصورة أكبر حجمًا، كلما كانت أوضح.. ( )

٩- لا يمكنك إضافة تأثيرات ثلاثية الأبعاد إلى مقاطع الفيديو مثل الانتقالات. ( )

١٠- جميع الصور الموجودة على الإنترنت متاحة للاستخدام مجانًا. ( )

السؤال الثاني / املئي الفراغات التالية بما يناسبها:

١- الوحدات التي تستخدم لقياس حجم الملفات في ذاكرة جهاز الحاسب هي ---------- حيث يشغل كل ملف مساحة تخزينية محددة حسب نوع الملف.

٢- من أنواع وحدات قياس حجم الملفات:-

أ - ---------- ب- ---------- ج ----------

٣-(برنامج تسجيل، ومحرر مقاطع صوتية رقمي مجاني مفتوح المصدر) يُسمى ----------.

٤-يمكننا استخدام ---------- لمسح وتحرير الصور والرسومات.

السؤال الثالث : صلى كل كلمة بالشكل المناسب :

شغّل (Play)	
إيقاف مؤقت (Pause)	
توقف (Stop)	
سجّل (Record)	
تراجع (Undo)	
كرر (Redo)	
مقياس التشغيل (Playback meter)	

السؤال الرابع : ابحثى عن الامتداد الذي لا يتطابق مع نوع الملف وضعى دائره حوله :

ملف نصي (مع أو بدون صور)	.doc, .docx, .xlsx
ملف صوتي	.wmv, .wma, .mp3
ملف فيديو	.mpg, .mp4, .mkv, .txt
ملف مضغوط	.zip, .rar, .gz, .svg
ملف صورة (صورة أو رسم)	.jpg, .jpeg, .png, .ppt

السؤال الخامس : اختاري الإجابة الصحيحة:

يمكنك اثراء الشريحة بإضافة

- المعدات المستخدمة في تسجيل الصوت والبرامج لتحرير الصوت والفيديو
- مقطع صوتي أو مقطع فيديو
- أن تتفق مع أهداف موضوع العرض
- جودة الفيديو
- جودة الصوت

الوسائط التى يمكن إضافتها للعرض التقديمي

- ا ملف صوتي
- ب ملف فيديو
- ج ملف صوري
- د نصوص
- ه سيارة
- و طيارة

أسئلة شاملة للوحدةالثالثة (البرمجة في سكراتش)

لمادة المهارات الرقمية

الفصل الدراسي الأول ١٤٤٧ هـ

السؤال الأول / اختاري الإجابة الصحيحة مما يلي:

١	**مجموعة من تعليمات مفصلة خطوة بخطوة لحل مشكلة أو إكمال مهمة هو معنى :**			
	(أ) الكتابة التلقائية	(ب) الخوارزمية	(ج) إدراج صورة	(د) التدقيق الإملائي
٢	**إذا أردنا ان نجعل الكائن في سكراتش يتحرك ٥ خطوات ١٠ مرات نستخدم لبنة :**			
	(أ)	(ب)	(ج)	(د) 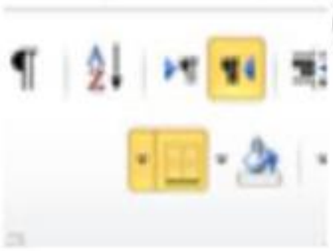
٣	**يسمى التكرار المستخدم لعدد محدد من المرات بـ :**			
	(أ) التكرار الثابت	(ب) التكرار المتغير	(ج) القلم	(د) الاستشعار
٤	**لبنة ارفع القلم** **تمكنّنا من جعل الكائن :**			
	(أ) يرسم بشكل مستمر	(ب) يتوقف عن الرسم	(ج) يطبع الشكل	(د) ينتظر قليلًا
٥	**نستطيع من خلال** **الصورة :**			
	(أ) تغيير حجم الخط	(ب) تغيير لون الخط	(ج) إنشاء نسخة مشابهة للكائن	(د) تباعد الأسطر
٦	**نستطيع من خلال الرمز الموجود بالصورة** **:**			
	(أ) تغيير الكائن	(ب) ترك أثر عند الحركة	(ج) مباعدة الأسطر	(د) تغيير الخلفية

السؤال الثاني : في الفقرات من(١) إلى (١٧) ضعي علامة(√) أمام العبارة الصحيحة (x) أمام العبارة الخاطئة:

١. يمكننا إضافة مقطع صوت في برمجة سكراتش. ( )
٢. الخوارزمية هي عملية تحويل تعليمات مفصلة خطوة بخطوة لحل مشكلة أو إكمال مهمة. ( )
٣. في لوحة لبنات الهيئة سنجد اللبنات المسؤولة عن تحكم حركة الكائن. ( )
٤. يبدأ دائمًا أي برنامج في سكراتش بلبنة الأحداث. ( )
٥. لا يمكننا استخدام لبِنات الصوت لأكثر من شخصية. ( )
٦. الأوامر البرمجية لها عدة ألوان في لوحة اللبنات البرمجية ( )
٧. لا يمكننا إزالة أمر من مقطع برمجي ( )
٨. إزالة الخلفية يزيل كامل العمل في سكراتش . ( )
٩. يمكننا استيراد مقطع صوتي من مكتبة الكائنات الرسومية بسكراتش . ( )
١٠. يمكننا إضافة تعليق داخل الأمر البرمجي . ( )
١١. تُمكن لغة سكراتش من إنشاء البرامج من خلال سحب وإفلات وتركيب اللبنات . ( )
١٢. تعطي الخوارزمية نتيجة صحيحة دائمًا حتى وإن كانت تحتوي أخطاء . ( )
١٣. يمكننا تشغيل العلم فقط لتشغيل المقطع البرمجي . ( )
١٤. تعمل الخلفية في سكراتش على تغيير مظهر المسرح. ( )
١٥. تسمى اللبنات في سكراتش بالأوامر. ( )
١٦. تستخدم الخوارزميات فقط لوصفات الطعام . ( )
١٧. يمكننا إضافة أكثر من كائن وجعل كل واحد منها يعمل بطريقة مختلفة . ( )

السؤال الثالث : صلى كل رمز من خيارات سكراتش المختلفة مع وظيفته الصحيحة :

الوظيفة		الرمز
١- إزالة ماتم رسمه باستخدام القلم		اجعل حجم القلم
٢- إيقاف عملية الرسم بالقلم		ارفع القلم
٣- تغيير سماكة القلم إلى قيمة محددة		مسح الكل
٤- تغيير لون القلم إلى لون محدد		اجعل لون القلم
٥- جعل القلم يرسم عند تحريكه		انزل القلم

نرجو لكن التوفيق

معلمات المادة :حنين المطيري